見え方と個数の両方で選ぶ

なまえ ＿＿＿＿＿＿＿＿＿＿＿＿＿＿＿＿＿＿＿＿

てまえから みると、２だん・２だんの かたちです。
つみきは ぜんぶで ５こ。この ふたつに あう ものは？

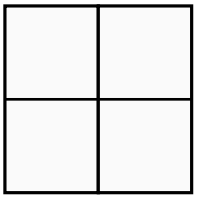

ア

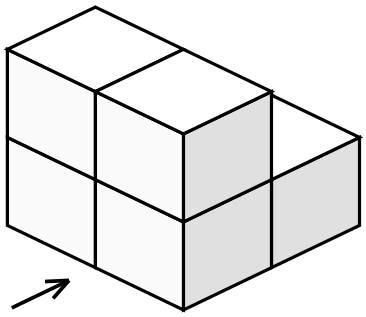

まえ

イ

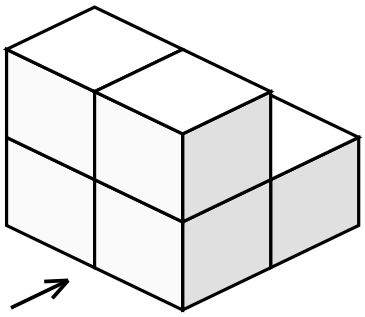

まえ

ウ

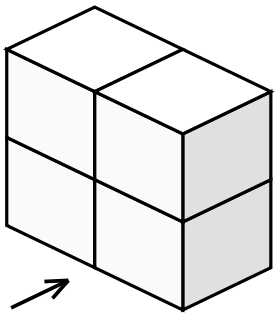

まえ

ア・イ・ウの どれ？