二方向の形から配置を選ぶ

なまえ ＿＿＿＿＿＿＿＿＿＿＿＿＿＿＿＿＿＿＿＿

てまえから みた かたちと、ひだりから みた かたちです。
りょうほうに あう ならべかたを えらびましょう。

てまえから

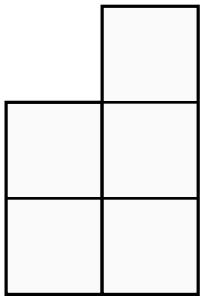

ひだりから

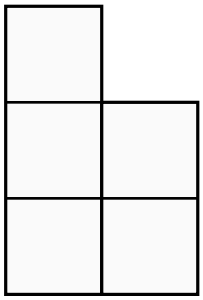

ア

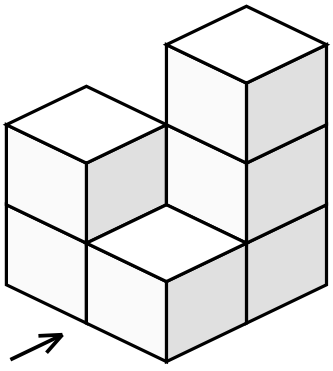

まえ

イ

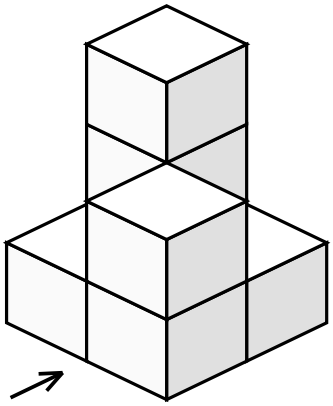

まえ

ウ

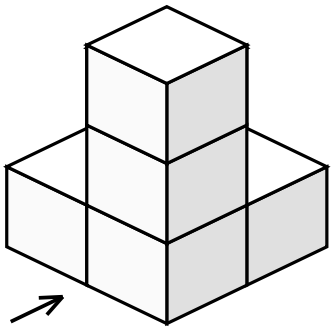

まえ

ア・イ・ウの どれ？