上からの配置と正面の形を合わせる

なまえ ＿＿＿＿＿＿＿＿＿＿＿＿＿＿＿＿＿＿＿＿

てまえから みると、ひだりから ２だん・１だん・３だんです。
この かたちに なる ならべかたを えらびましょう。

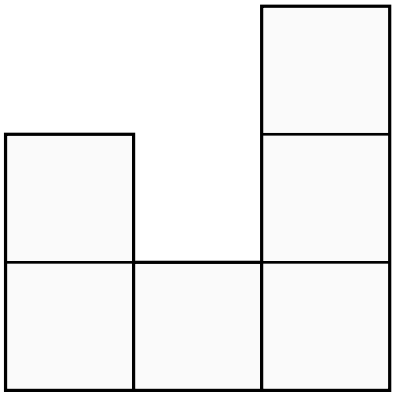

ア

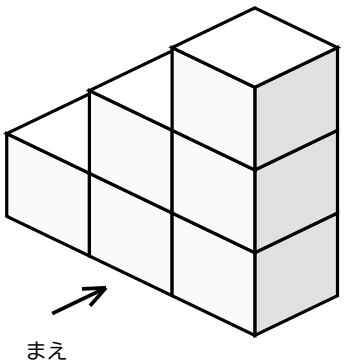

イ

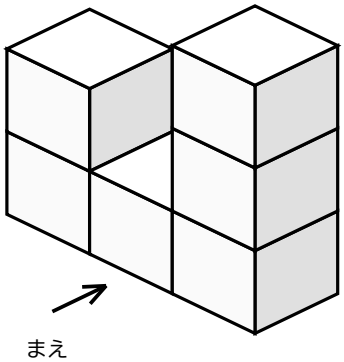

ウ

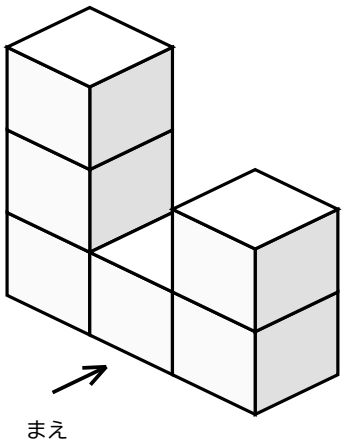

ア・イ・ウの どれ？