同じ配置を二方向で比べる

なまえ ＿＿＿＿＿＿＿＿＿＿＿＿＿＿＿＿＿＿＿＿

おなじ ならびを、「ア」と「ウ」の ほうから みます。

それぞれの やじるしと、ただしい かたちを せんで むすびましょう。

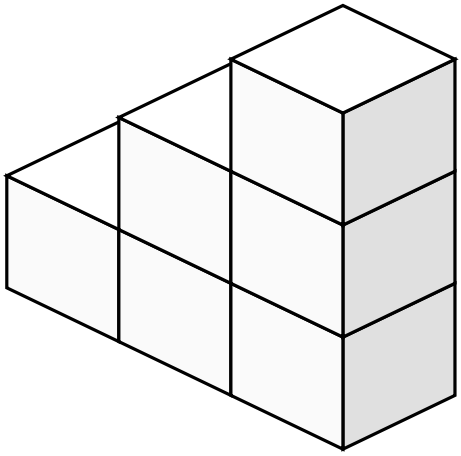

うえから みた ず

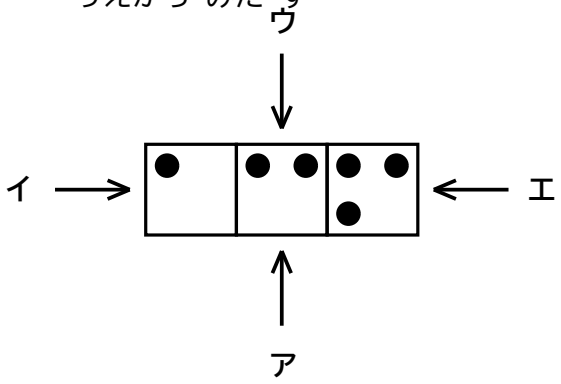

●は、その ばしょの だんすう。

アの ほうから



ウの ほうから

