左側から見える高さ

なまえ ＿＿＿＿＿＿＿＿＿＿＿＿＿＿＿＿＿＿＿＿

「イ」の やじるしの ほうから、まっすぐ みます。
みえる かたちは、したの ア・イ・ウの どれでしょう。

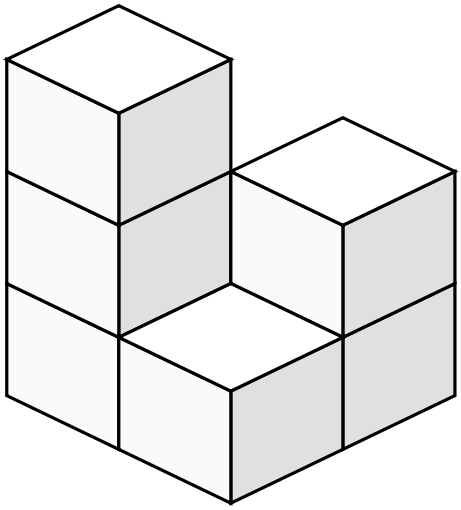

うえから みた ず

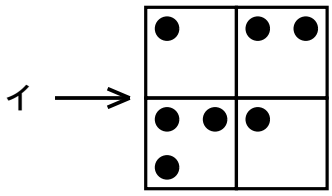

●は、その ばしょの だんすう。

ア

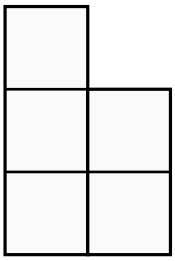

イ

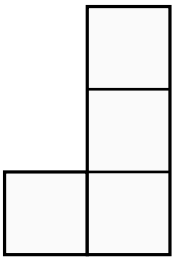

ウ

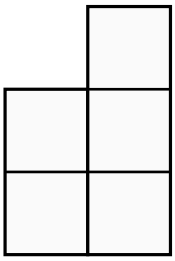

こたえの きごうを かきましょう。