基準の物を変える

なまえ ＿＿＿＿＿＿＿＿＿＿＿＿＿＿＿＿＿＿＿＿

かぎから みると、でんちは どちらに ありますか。

ランプから みると、でんちは どちらに ありますか。



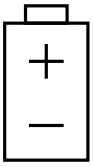

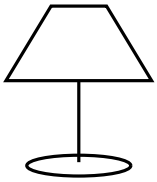

かぎから： ひだり ・ みぎ

ランプから： ひだり ・ みぎ