回転の途中の図を選ぶ

なまえ ＿＿＿＿＿＿＿＿＿＿＿＿＿＿＿＿＿＿＿＿

みぎへ ４ぶんの１かいてんを、２かい つづけました。
まんなかに はいる かたちを えらびましょう。



ア

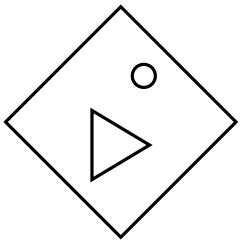

イ

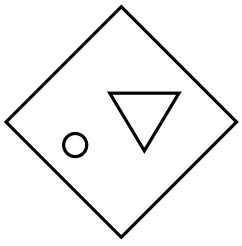

ウ

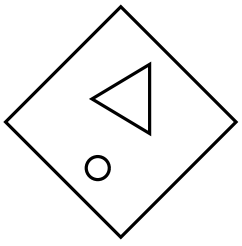

まんなかに はいる きごうは？

＿＿＿＿＿＿＿＿＿＿＿＿＿＿＿＿＿＿＿＿