回転前の図を求める

なまえ ＿＿＿＿＿＿＿＿＿＿＿＿＿＿＿＿＿＿＿＿

もとの かたちを みぎへ ４ぶんの１かいてんしたら、この ずに なりました。

まわす まえの かたちは、どれでしょう。

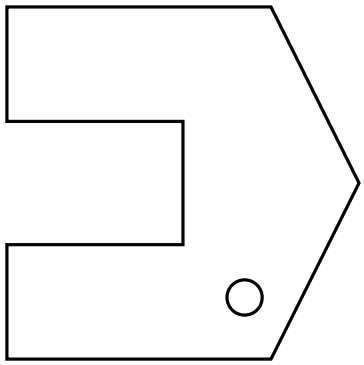

ア

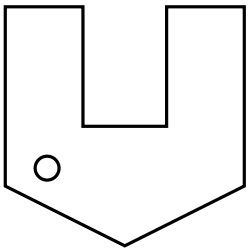

イ

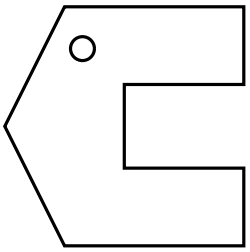

ウ

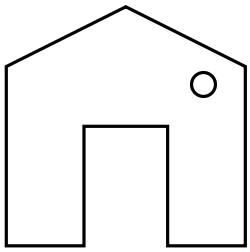

もとの かたちの きごうは？

＿＿＿＿＿＿＿＿＿＿＿＿＿＿＿＿＿＿＿＿