回転と裏返しを区別する

なまえ ＿＿＿＿＿＿＿＿＿＿＿＿＿＿＿＿＿＿＿＿

この かたちを、みぎへ ４ぶんの１かいてん します。
うらがえした かたちと まちがえない ように しましょう。

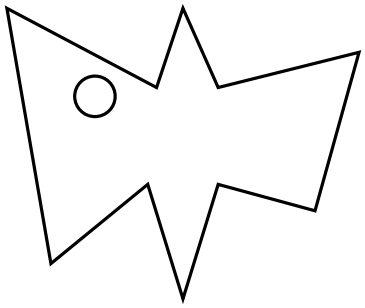

ア

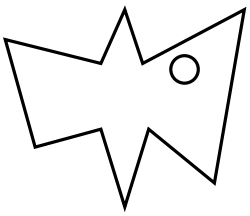

イ



ウ



ア・イ・ウの どれ？