目印と図形を一緒に回す

なまえ ＿＿＿＿＿＿＿＿＿＿＿＿＿＿＿＿＿＿＿＿

まるい しるしも、かたちと いっしょに うごきます。

みぎへ ４ぶんの１かいてん すると、どの ずに なりますか。

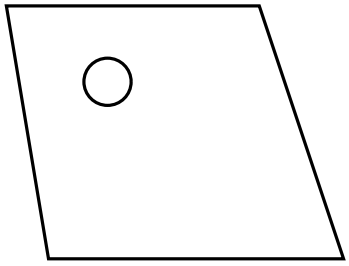

ア

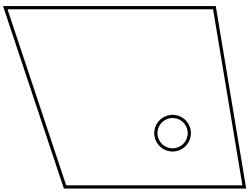

イ

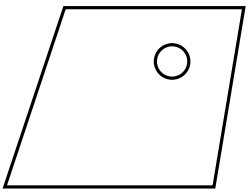

ウ

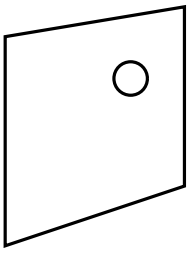

こたえの きごうを かきましょう。