元の図を鏡像から求める

なまえ ＿＿＿＿＿＿＿＿＿＿＿＿＿＿＿＿＿＿＿＿

これは、みぎの かがみに うつった かたちです。
もとの かたちは、どれだったでしょう。

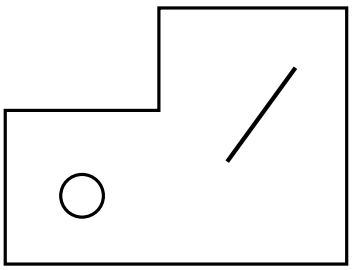

ア

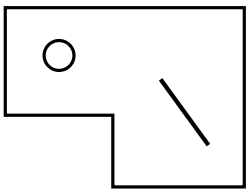

イ

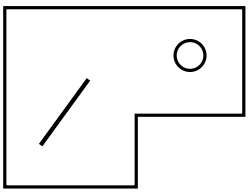

ウ

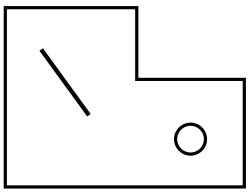

もとの かたちの きごうは？

＿＿＿＿＿＿＿＿＿＿＿＿＿＿＿＿＿＿＿＿