二回映した形を考える

なまえ ＿＿＿＿＿＿＿＿＿＿＿＿＿＿＿＿＿＿＿＿

まず、みぎの かがみに うつる かたちを かんがえます。

その かたちを、つぎに したの かがみに うつすと どうなりますか。

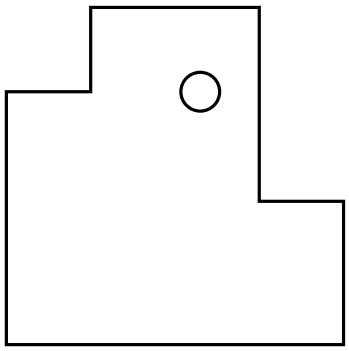

ア

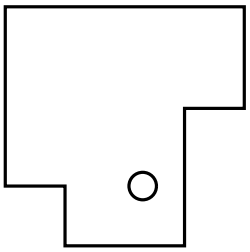

イ

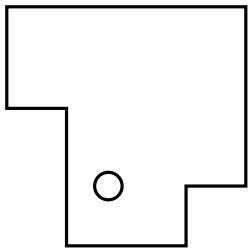

ウ

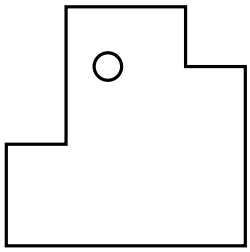

さいごの かたちは ア・イ・ウの どれ？