二つの印を同時に映す

なまえ ＿＿＿＿＿＿＿＿＿＿＿＿＿＿＿＿＿＿＿＿

はなれた かたちどうしの ばしょも、いっしょに うつります。
みぎの かがみに うつった ずを えらびましょう。

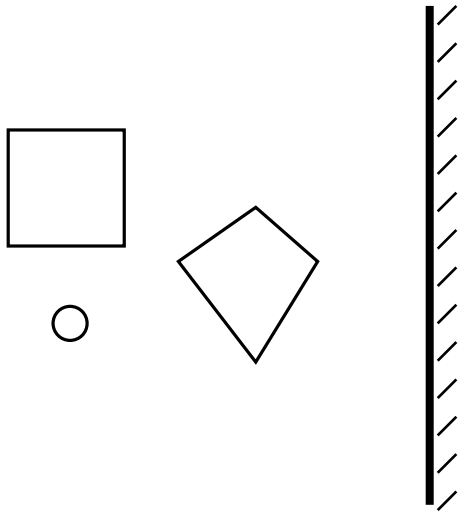

ア

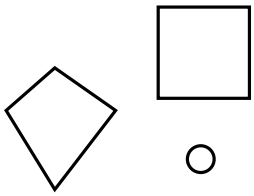

イ

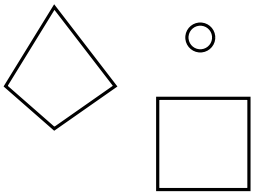

ウ

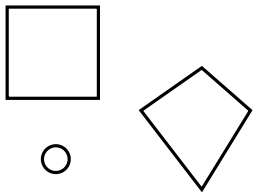

こたえの きごうは？

＿＿＿＿＿＿＿＿＿＿＿＿＿＿＿＿＿＿＿＿