上下二段の配置を映す

なまえ ＿＿＿＿＿＿＿＿＿＿＿＿＿＿＿＿＿＿＿＿

うえと した、２だんの もようが あります。
みぎの かがみに うつる もようを えらびましょう。

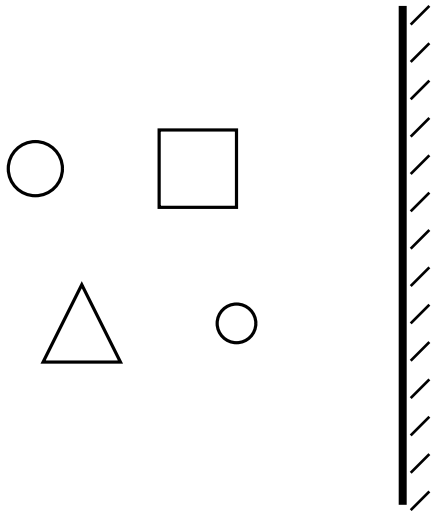

ア

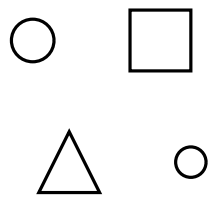

イ

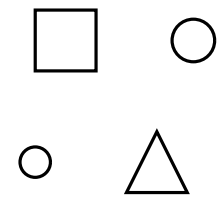

ウ

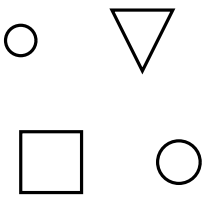

こたえの きごうは？

＿＿＿＿＿＿＿＿＿＿＿＿＿＿＿＿＿＿＿＿