非対称な輪郭を映す

なまえ ＿＿＿＿＿＿＿＿＿＿＿＿＿＿＿＿＿＿＿＿

でっぱりや へこみも、かがみに うつります。

みぎの かがみに うつる かたちを えらびましょう。

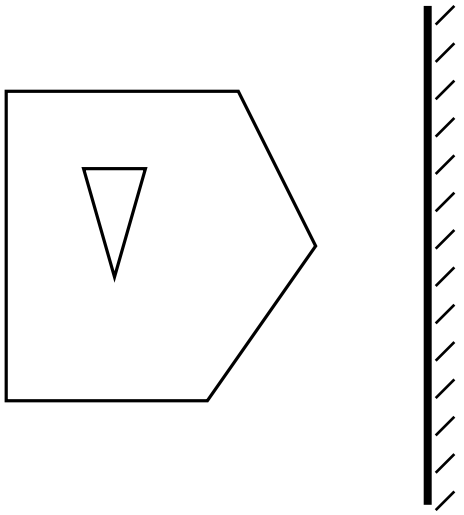

ア

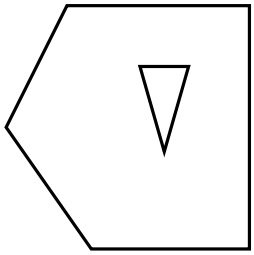

イ

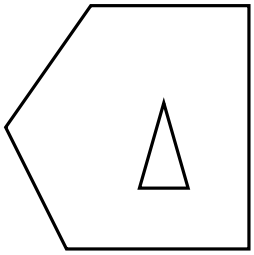

ウ

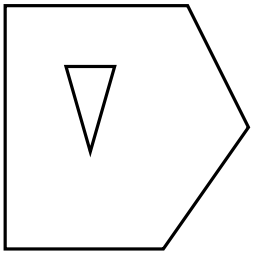

こたえの きごうは？

＿＿＿＿＿＿＿＿＿＿＿＿＿＿＿＿＿＿＿＿