左右の鏡と目印の位置

なまえ ＿＿＿＿＿＿＿＿＿＿＿＿＿＿＿＿＿＿＿＿

かがみが みぎに あります。

かがみに うつる かたちを、したから えらびましょう。

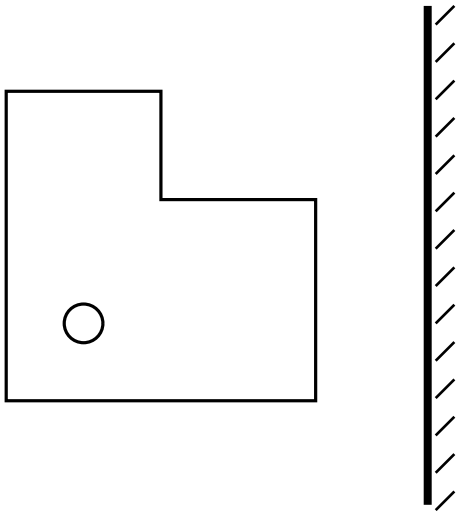

ア

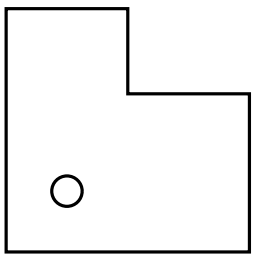

イ

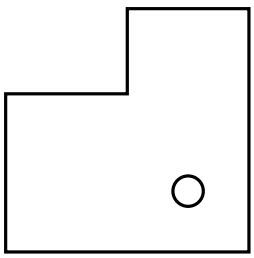

ウ

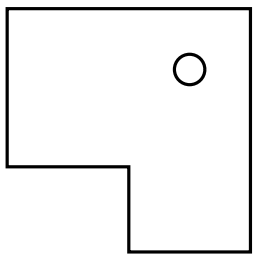

こたえの きごうは？

＿＿＿＿＿＿＿＿＿＿＿＿＿＿＿＿＿＿＿＿