# 重なった図の元の二枚を選ぶ

なまえ ＿＿＿＿＿＿＿＿＿＿＿＿＿＿＿＿＿＿＿＿

うえの もように なる ２まいを、したから えらびましょう。

つかわない シートが １まい あります。

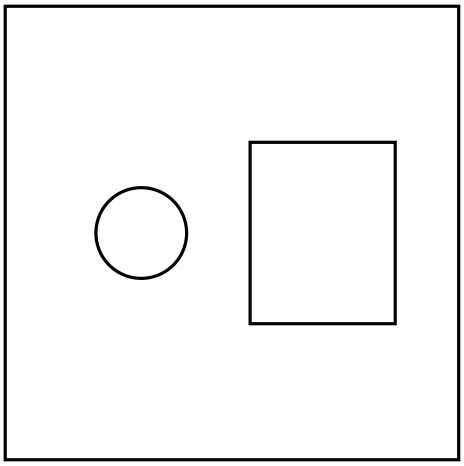

ア



イ

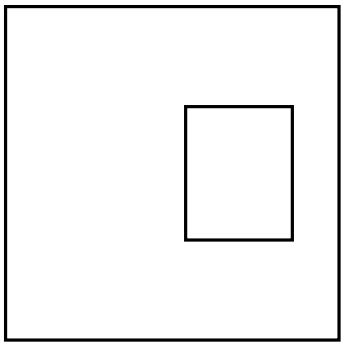

ウ

