合成図から不足する線を探す

なまえ ＿＿＿＿＿＿＿＿＿＿＿＿＿＿＿＿＿＿＿＿

ひだりの シートに、もう １まいを かさねて、みぎに なりました。

たした シートを したから えらびましょう。

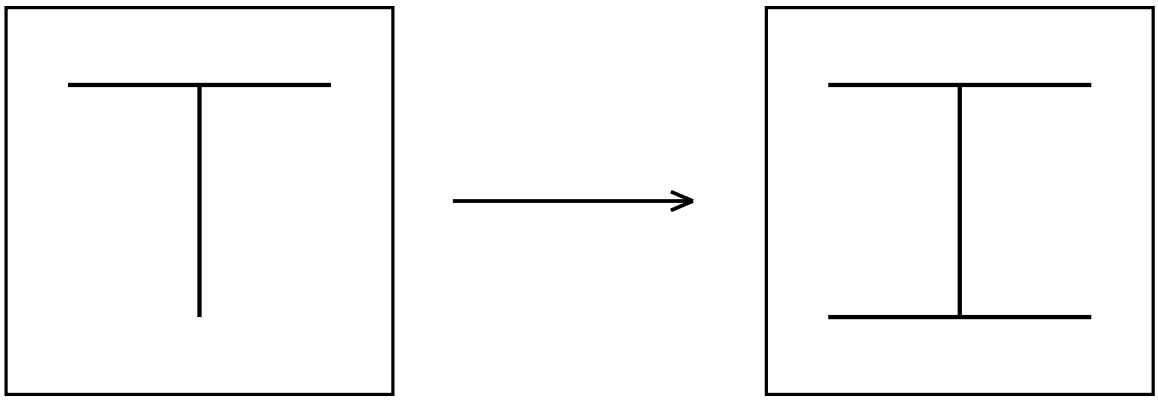

ア

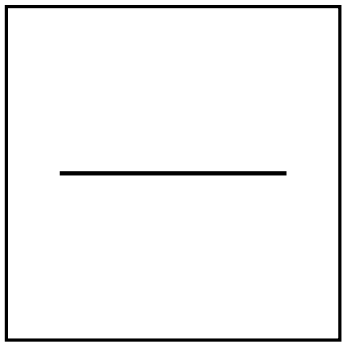

イ



ウ

