三片で長方形を作る

なまえ ＿＿＿＿＿＿＿＿＿＿＿＿＿＿＿＿＿＿＿＿

３まいの ぶひんで、うえの わくを うめます。

わくに、ぶひんの さかいめを かきましょう。

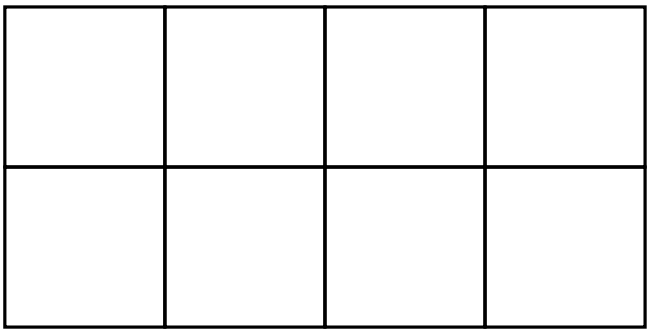

ア



イ



ウ

