一致する二つの図を探す

なまえ ＿＿＿＿＿＿＿＿＿＿＿＿＿＿＿＿＿＿＿＿

４つの なかに、まったく おなじ ずが ２つ あります。

その ２つを せんで むすびましょう。

ア

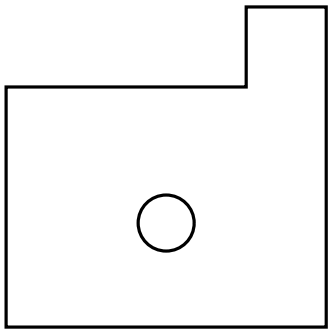

イ

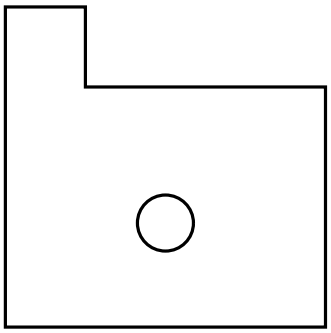

ウ

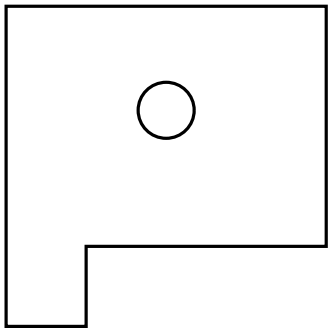

エ

