入れ物の数から中身を求める

なまえ ＿＿＿＿＿＿＿＿＿＿＿＿＿＿＿＿＿＿＿＿

ひとつの ケースに、えんぴつが ５ほん はいっています。
とじた ケースにも、おなじ かずずつ はいっています。

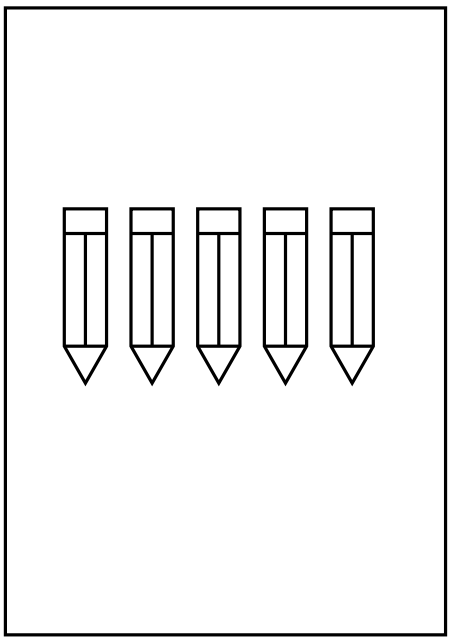

あけた ケース



５ほん



５ほん

３つの ケースで、ぜんぶで なんぼん？

すうじか、かずだけ ○を かこう。