四個入りの箱を作る

なまえ ＿＿＿＿＿＿＿＿＿＿＿＿＿＿＿＿＿＿＿＿

クッキーを １はこに ４こずつ いれます。
３はこぶん、クッキーの かわりに ○を かきましょう。



1はこめ



2はこめ



3はこめ

クッキーは ぜんぶで いくつ ひつよう？



すうじか、かずだけ ○を かこう。