二つの合計を比べる

なまえ ＿＿＿＿＿＿＿＿＿＿＿＿＿＿＿＿＿＿＿＿

アと イは、それぞれ ふたつの おさらを あわせます。
あわせた あと、どちらが おおく なりますか。

ア

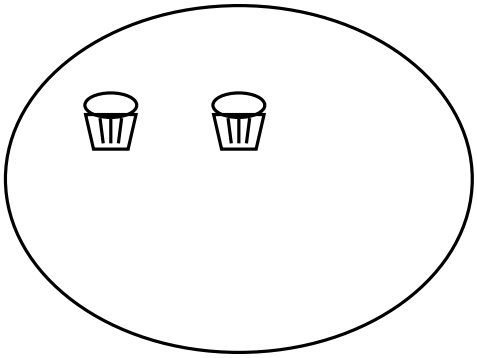

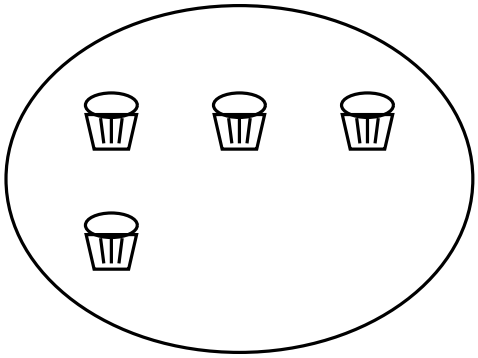

イ

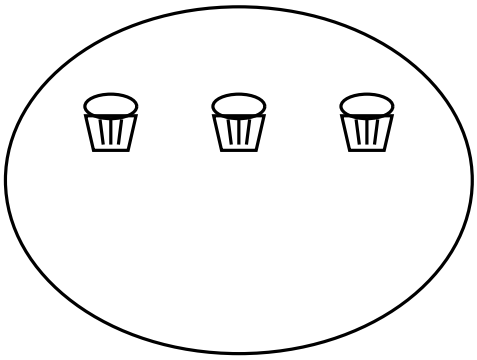

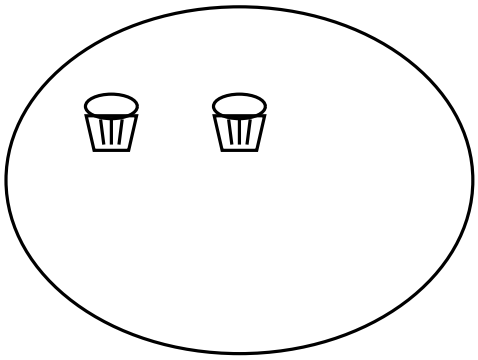

おおく なるのは アと イの どちら？