四つの集まりから最多と最少を探す

なまえ ＿＿＿＿＿＿＿＿＿＿＿＿＿＿＿＿＿＿＿＿

いちばん おおい はこに ○、いちばん すくない はこに ×を つけます。
ほかの はこには、しるしを つけません。

ア

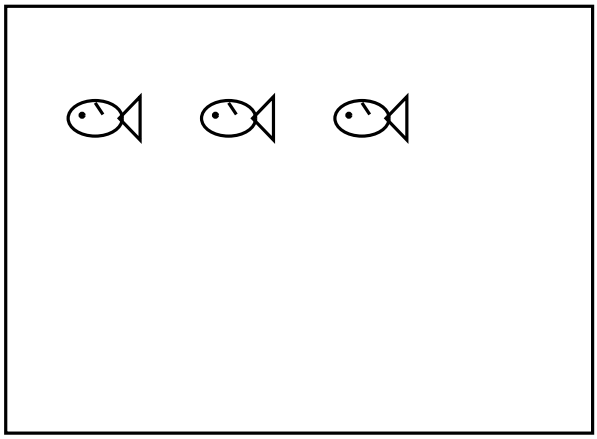

イ

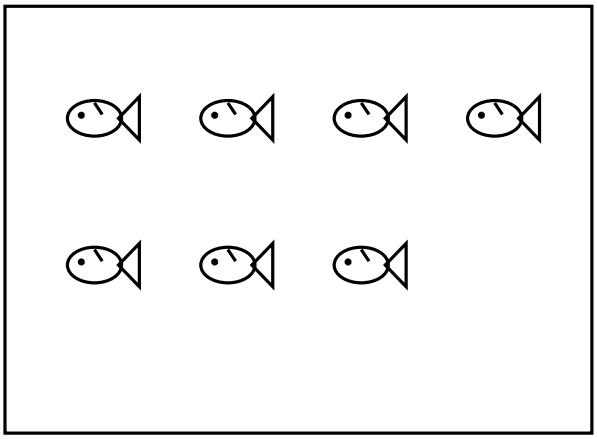

ウ

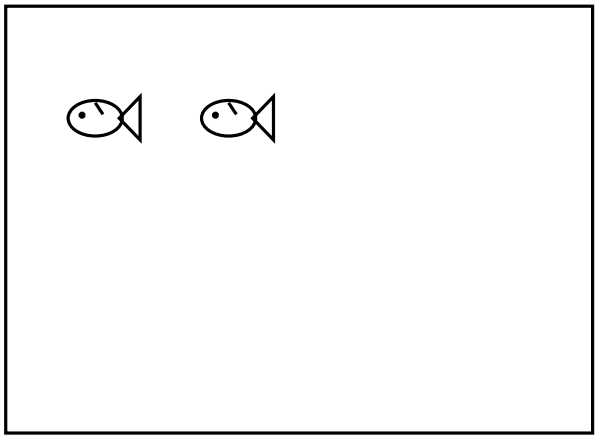

エ

